第 13 章　地層

第43講・大地の変化

地層の変化

ポイント　しゅう曲(きょく)と断層(だんそう)

＿＿＿にあてはまる語句を確認しましょう。

■しゅう曲

地層(ちそう)が左右からゆっくりとおす力を受けて

曲がったものを＿**しゅう曲**＿という。
└ 図1

図1 しゅう曲のようす

■断層

地層が左右から急におす力や引く力を受けて

ずれたものを＿**断層**＿という。
└ 図2，3

左右から急に引く力がかかり，上盤(じょうばん)がずり下がった断層を＿**正断層**＿という。
└ 図2

左右から急におす力がかかり，上盤がずり上がった断層を＿**逆断層**＿という。
└ 図3

図2 正断層のようす



図3 逆断層のようす



確認テスト

次の問いに答えなさい。

(1) 次の図のような地層の曲がりを何というか。

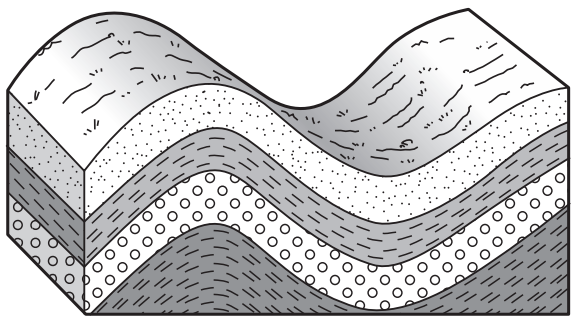

しゅう曲

(2) 左右から急におす力や引く力をうけてできた地層のずれを何というか。

断層

(3) 次の図のような断層を何というか。

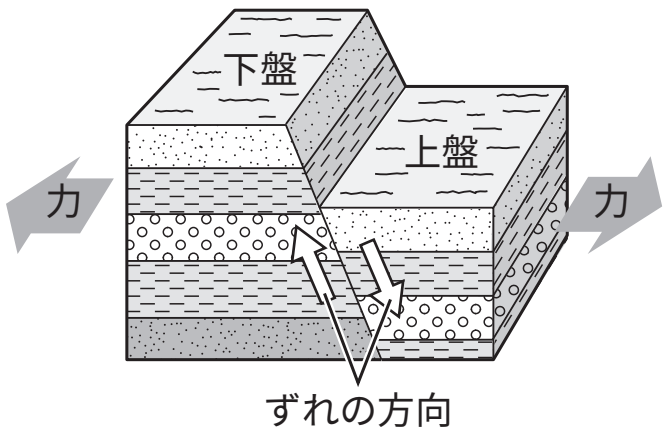

正断層

(4) 次の図のような断層を何というか。

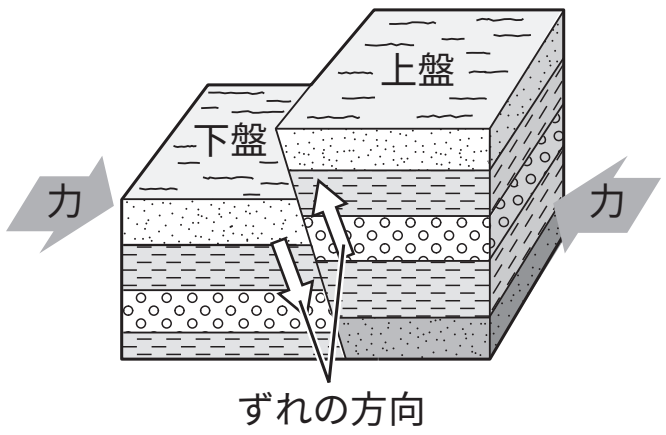

逆断層

(5) 地層がずれたとき，何が起こることが多いか。

地震